Prénom :_____ Date:_____

## CALCULS : vers la multiplication

**1** Ecris le nombre de hérissons de plusieurs façons :



___+___= ___

___+___+___+___+___=___

On peut aussi écrire :___x___ou___x ___

**2** Relie chaque dessin à la multiplication qui convient:

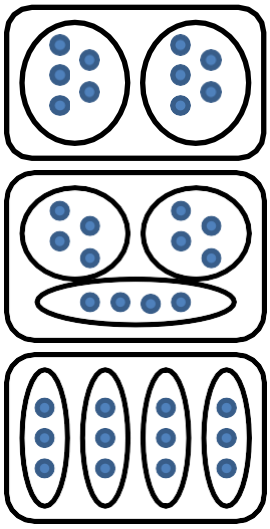

4 x 3

3 x 3

2 x 6

2x 5

3x 5

3 x 4

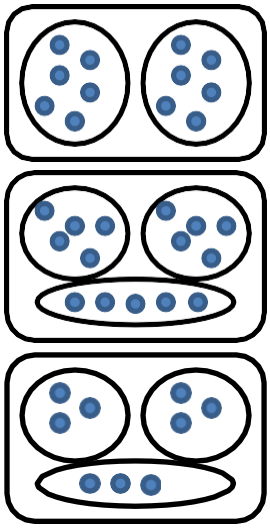

## Problème :

Dans la classe de Julie, la maîtresse a fait 3 groupes de 6 élèves.
Combien y a-t-il d'élèves dans cette classe?

| dessin ou calcul : | phrase réponse : |
|---|---|
| | |