Prénom :_____ Date:_____

CALCULS : vers la multiplication

1 Ecris le nombre de hérissons de plusieurs façons :



___+___+___= ___

___+___+___+___+___=___

On peut aussi écrire :___x___ou___x ___

2 Relie chaque dessin à la multiplication qui convient:



4 x 2

2 x 3

2x 2

3 x 4

2 x 4

4 x 3

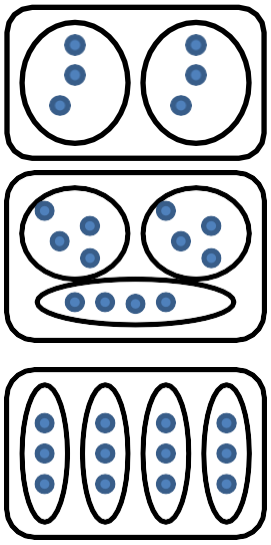

Problème :

Un poulet rôti a 2 cuisses.
Maman a acheté 3 poulets.
Combien y a-t-il de cuisses en tout?

dessin ou calcul :

phrase réponse :