Prénom :_____ Date:_____

CALCULS : vers la multiplication

1 Représente la multiplication comme dans l'exemple :

2 x 5	3 x 5	5 x 4	2 x 3
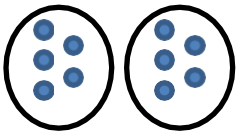			

2 Ecris les deux multiplications qui conviennent :



2 x 6
6 x 2



___x___
___x___

___x___
___x___

___x___
___x___

Problème :

Un paquet de cartes Pokipon coûte 5€.
Jérôme souhaite en acheter 3.
Combien devra-t-il payer?

dessin ou calcul :

phrase réponse :